太原市 2017-2018 学年第二学期七年级期末考试

历史试卷

（考试时间：下午 5：00-6：30）

说明：本试卷为闭卷笔答，做题时间 90 分钟，满分 100 分。

题　号	一	二	三	四	总　分
得　分					

一、单项选择题（每小题 2 分，共 30 分）

题号	1	2	3	4	5	6	7	8	9	10	11	12	13	14	15
选项															

1. 下列中国古代朝代按时间先后顺序排列，正确的是

A. 隋唐——秦汉——宋元——明清　　B. 秦汉——隋唐——宋元——明清

C. 宋元——隋唐——秦汉——明清　　D. 明清——宋元——秦汉——隋唐

【答案】B

【解析】

朝代歌：夏商与西周；东周分两段；春秋和战国；一统秦两汉；三分魏蜀吴；二晋前后沿；南北朝并立；隋唐五代传；宋元明清后；皇朝至此完。具体时间如下：

秦朝：公元前 221 年~公元前 207 年　；汉朝：公元前 202 年~公元 220 年　；隋朝：公元 581 年~公元 619 年

唐朝：公元 618 年~公元 907 年　；　宋朝：公元 960 年~公元 1279 年　；　元朝：公元 1271 年~公元 1368 年

明朝：公元 1368 年~公元 1644 年　；　清朝：公元 1644 年~公元 1912 年

2. 随着城市的繁荣，东京城内大街小巷店铺林立，早市夜市买卖不绝，还有热热闹闹的“瓦子”。下列能够为此提供历史依据的是

A. 《清明上河图》　　B. 《皇都积胜图》

C. 《前门街市图》　　D. 《盛世滋生图》

【答案】A

【解析】《清明上河图》为北宋画家张择端作，为北宋风俗画，记录了北宋都城汴京的城市风貌和各阶层人民的生活状况。《皇都积胜图》描绘的是中国明代北京城商业繁荣、贸易发达的景象。《前门街市图》画于清朝乾隆年间，展现了乾隆皇帝南巡的宏伟场面。《盛世滋生图》是清代画家徐扬所作，是一幅描绘苏州风物的巨制。

3. 七年级（1）班利用班会时间进行了一场诗词比赛，其中有一道题目“特点：豪放风格；成就：文学、书法等；经典名句：大江东去，浪淘尽，千古风流人物”。这位词人是

A. 苏轼　　B. 李清照

C. 辛弃疾　　D. 关汉卿

【答案】A

【解析】苏轼，宋代词人，是豪放派词人的代表。“大江东去，浪淘尽，千古风流人物”出自他的《念奴娇·赤壁怀古》。

4. 与下面《梦溪笔谈》中所描述的发明有关的历史人物是.

用胶泥刻字……火烧令坚……一板印刷，一板已自布字……更互用之，瞬息可就。

A. 蔡伦　　B. 毕昇　　C. 王祯　　D. 沈括

【答案】B

【解析】描述的是活字印刷术的泥活字。北宋时，毕昇发明活字印刷术。他将胶泥做成陶活字，用来排版印刷。与蔡伦有关的发明是造纸术。王祯是中国古代农学家，著成《农书》，发明转轮排字盘。沈括是《梦溪笔谈》的作者，在书中记载了印刷术。

5.《三字经》中有“元灭金，绝宋世。太祖兴，国大明。号洪武，都金陵。”其中“太祖”指的是

A. 赵匡胤　　B. 朱元璋　　C. 努尔哈赤　　D. 皇太极　.

【答案】B

【解析】明朝由明太祖朱元璋建立，年号洪武。

6. 观察下面两幅图，与唐朝长安城比较，明朝北京城设计的最主要待点是

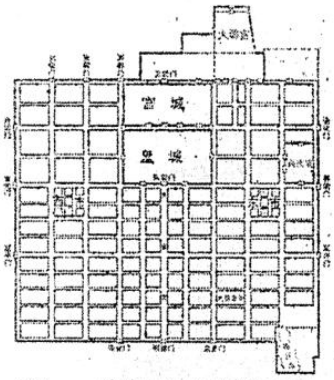

图一　唐朝长安城平面图

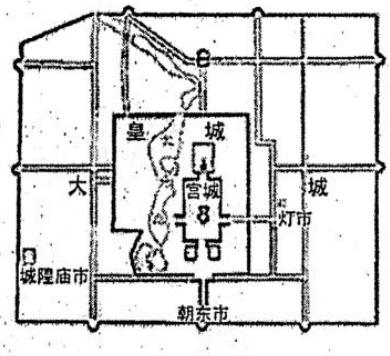

图二　明朝北京城平面图

A. 城内有“市”，具有商业功能

B. 城内有宫城和皇城

C. 城有三重，宫城居于中心

D. 城为方形，街道正直

【答案】C

【解析】观察图片，两都城设计上都有“市”：西市、东市、灯市、城隍庙市等，“市”具有商业功能；两都城设计上都有“宫城和皇城”；两城都为方形，街道正直。两城在布局上呈现显著区别：与唐朝长安城比较，明朝北京城有三重，宫城居于中心。

7.《元史•地理志》中记载：“元有天下，薄海内外，人迹所及，皆置驿传，使驿往来，如行国中。”这段话说明元朝

A. 建立了遍布全国的驿站

B. 海上交通发达，海外贸易繁荣

C. 修建了覆盖全国的交通网

D. 与阿拉伯国家之间有大量商船往返

【答案】A

【解析】“元有天下，薄海内外，人迹所及，皆置驿传，使驿往来，如行国中。”意为：有人的地方，元朝就会设置驿站。这句话主要强调了元朝建立的驿站的范围之广。

8. 明朝时，科举考试的命题范围是

A. 四书五经　　B. 唐诗宋词

C. 《资治通鉴》　　D. 明清小说

【答案】A

【解析】明朝科举考试规定只从儒家的四书五经中命题，不许考生发挥个人见解，以达到严格控制士人思想的目的。

9. “左图右史”形象地说明了历史地图、图表、图示在历史学习中的重要性。右图反映的历史史实是

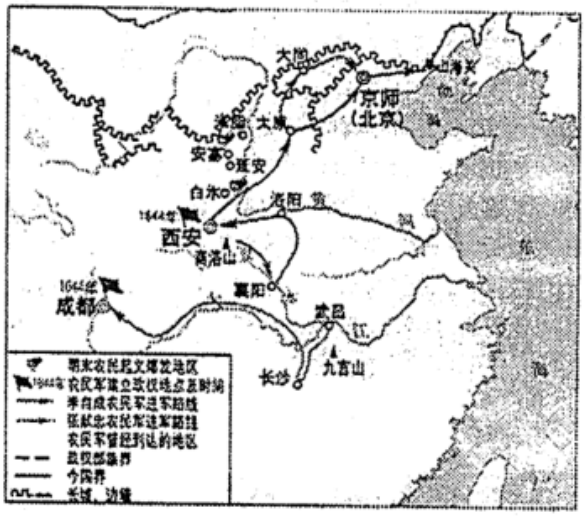

A. 吴三桂引清军入关

B. 清军入关推翻明朝

C. 明末农民起义进军路线

D. 张献忠农民军推翻明朝

【答案】C

【解析】观察图中，主要体现了李自成农民军进军路线和张献忠农民军进军路线，即明末农民起义进军路线。D 选项与事实不符，推翻明朝的是李自成农民军。

10. 康熙、雍正、乾隆统治时期，一方面社会安定、经济繁荣、国力强盛，另一方面却潜藏着巨大的危机。这里的“危机”主要表现在

①专制达到顶峰　　②人地矛盾突出

③财政危机　　④“人烟数十里，贾户数千家”

A. ①②③　　B. ②③④　　C．①③④　　D. ①②④

【答案】A

【解析】“人烟数十里，贾户数千家”描绘的是清代商业都会汉口镇，是清朝经济繁荣的表现，不属于“危机”。

11. 山西的晋商起于清朝前期，他们拥有雄厚的商业资本，在全国进行商业活动。下列对晋商活动的描述，不正确的是

A. 他们主要贩卖粮食、食盐、丝绸　　B. 在全国各地开设“票号”，便于货币流通

C. 他们大都拥有自己的手工工场　　D. 他们的活动对社会经济产生很大影响

【答案】C

【解析】A, B, D 选项是晋商的特点和影响。中国的手工工场出现于明清时期，地点主要分布在中国南方地区。

12. 阅读下表，你能得出的结论是

年代	耕地面积(顷)
1661 年(顺治十八年)	5 493 576
1685 年(康熙二十四年)	6 078 430
1724 年(雍正二年)	6 837 914
1766 年(乾隆三十一年)	7 414 495

A. 统治者重视农业生产，推行垦荒政策
B. 1661 年到 1766 年广大劳动人民辛勤劳作
C. 1661 年到 1766 年耕地面积大大增加
D. 清朝前期统一多民族国家进一步巩固

【答案】C
【解析】从表中可得，从 1661 年到 1766 年，耕地面积呈不断增长的趋势，耕地面积大大扩大。A, B, D 选项均无法从题干中直接得出。

13. 明清时期，从国外引进并普遍推广种植了许多农作物，极大缓解了中国 18 世纪中叶——19 世纪中叶因人口大幅度增长而带来巨大粮食压力的作物有
①玉米 ②马铃薯 ③水稻 ④甘薯
A. ①②③ B. ①②④
C. ①③④ D. ②③④

【答案】B
【解析】水稻不是从国外引进的，我国是世界上最早种植水稻的国家。

14. 下列作者与作品的对应关系，正确的是
①李时珍——《本草纲目》 ②徐光启——《农政全书》
③施耐庵——《西游记》 ④吴承恩——《水浒传》
A. ①② B. ③④ C. ①② D. ②③④

【答案】A
【解析】施耐庵的代表作是《水浒传》，吴承恩的代表作是《西游记》。

15. 山西是中国戏曲的摇篮。20 世纪 50 年代，在山西发现了种类繁多、古朴精美的宋、辽、金戏曲文物，有戏台遗迹、戏剧壁画、出土珍品等，中华民族的艺术瑰宝——元杂剧也发源并成熟于山西，成为元曲的重要组成部分。明清时期还形成了具有地方特色的“四大梆子戏”，即北路梆子、晋剧、上党梆子、蒲剧。下列对这段材料的理解有误的是
A. 丰富的戏曲文物，说明了山西是中国戏曲的摇篮
B. 元杂剧作为元曲的组成部分，发源并成熟于山西
C. 具有地方特色的“四大梆子戏”形成于明清时期
D. 山西“四大梆子戏”是在元杂剧的基础上形成的

【答案】D
【解析】材料中未能体现“山西‘四大梆子戏’的形成基础是元杂剧”，且这一说法与史实不符。

二、简答题（本题共 14 分）

16. 我国历代政府都非常重视民族团结和注重对边疆地区的有效管辖。观察元、明、清三朝的疆域图，回答下面问

题。

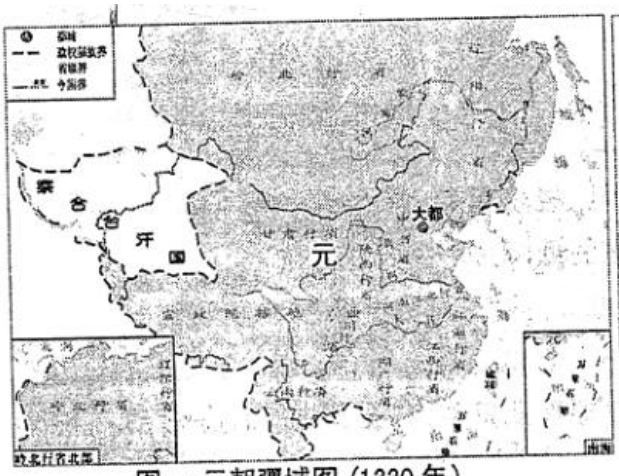

图一 元朝疆域图（1330 年）

图二 明朝疆域图（1433 年）

图三 清朝疆域图（1820 年）

（1）图一、图三中元朝和清朝政府为了加强对西藏地区的管辖，分别采取了什么措施？（4 分）

（2）图二中时台湾，在明朝后期被哪国侵占？到了图三清朝统治期间，台湾的回归经历了怎样的过程?（6 分）

（3）观察图三中我国东北和西北地区的边界线，分别列举清朝为了巩周这两个边疆地区的安全所做出的重大斗争。（4 分）

16.【答案与解析】

（1）元朝：设宣政院(2 分)清朝：顺治帝赐予五世达赖“达赖喇嘛”的封号；康熙帝册封五世班禅“班禅额尔德尼”的封号；雍正时，设置驻藏大臣；颁布《钦定藏内善后章程》，规范西藏地方行政体制和法规。（答出其中任意两点可得 2 分）

（2）荷兰(2 分)1662 年，郑成功从荷兰手中收复台湾；（2 分)康熙时，设台湾府，隶属于福建省管辖。（2 分）

（3）西北地区：康熙帝平定准噶尔部叛乱；乾隆帝平定大小和卓叛乱，设置伊犁将军等，加强对西北的管辖。（答出任意一点 2 分)东北地区：康熙时期，组织两次雅克萨之战，打败沙俄；并签订中俄《尼布楚条约》，划定了两国东段边界。（答出任意一点得 2 分）

三、材料解析题（本题共两小题，17 题 16 分，18 题 18 分，共 34 分）

17. 从古丝绸之路到现今的“一带一路”，中国对外交流日益深入和扩大。阅读下列材料，结合所学知识，回答问题。

材料一 宋元时期，在工商业发达的基础上，海外贸易有所发展，由于当时西夏、辽、金、蒙古与宋对峙，宋军费支出浩大、不能不谋求广开财源，注目于发展海外贸易。南宋偏安江南之后，中西陆路交通几乎断绝，海外交通空

前发达。

——摘自《中外文化交流史》

材料二 明朝前期，社会安客、国力雄厚。从 1405 年到 1433 年，郑和率船队七次下西洋，先后到过亚、非 30 多个国家，最远到达红海沿岸和非洲东海岸。

材料三 清朝……开放四个港口，作为对外通商口岸；并对出口的商品种类和出海船只的载重量做出严格的限制。（后）下令只开广州一处作为对外通商口岸，关闭了其他港口。

——材料二、三摘编自部编教材七年级下册

材料四 古丝绸之路绵亘万里，延续千年，积淀了以和平合作、开放包容、互学互鉴、互利互赢为核心的丝路精神，这是人类文明的宝贵遗产。

——习近平在“一带一路”国际合作高峰论坛开幕式上的演讲

（1）根据材料一，指出宋元时期海外贸易和海外交通发展的原因。（2 分）

（2）根据材料二概括郑和能够实现远航的条件有哪些，并简述郑和下西洋的积极意义。（4 分）

（3）材料三中清朝的对外政策给中国社会带来了哪些影响？（4 分）

（4）材料四中丝路精神的核心是什么？请你概括影响国家对外交往的因素。（6 分）

17. 【答案与解析】

（1）工商业发达；军费支出巨大，谋求广开财源；中西陆路交通断绝；政府重视、政策的侧重。

评分说明：答出符合题意的一点即可得 2 分。

（2）条件：社会安定，国力雄厚；造船、航海技术进步；统治者的支持。（答出任意两点得 2 分）

积极意义：郑和下西洋是世界航海史上的创举，增进了中国和亚非国家和地区的相互了解和友好往来，开创了西太平洋和印度洋之间的亚非海上交通线，为人类的航海事业作出了巨大贡献。(2 分)

（3）影响：一定程度上遏制了西方殖民者的侵略活动；导致国家的闭塞，使中国错失了向西方学习生产技术和科学知识的机会，使中国脱离世界发展潮流，在世界发展进程中逐渐落后。(从积极和消极两方面回答，一点 2 分，共 4 分)

（4）核心：和平合作、开放包容、互学互鉴、互利互赢。（2 分）

国家的综合国力；发达的交通路线；杰出历史人物的贡献；政府的政策；国家利益等。(答出符合上述意思的任意一点得 2 分，共 4 分)

18. 明清时期是我国古代君主专制中央集权不断强化的时期。阅读下列材料，结合所学知识，回答问题。

材料一 经过春秋战国时期的诸侯争霸，到秦朝统一多民族国家的形成，以皇权为中心的中央集权制度建立起来。历经汉魏至明清，皇帝与宰相之间的权势此消彼长，中央与地方争权斗争接连不断，最终皇权不断强化，中央集权逐渐得到巩固。中央集权制度作为古代中国政治制度的突出特色，对中国历史产生了深远影响。中国统一多民族国家的形成与发展，官僚政治与行政管理以至文化教育传统，无不与此有着密切的关系。

——高中历史教材必修 1

材料二 （军机大臣）只供传述缮撰，而不能稍有赞画于其间也。

——赵翼《檐曝杂记》卷一

材料三“明月有情还顾我，清风无意不留人。”雍正皇帝时的一位进士因写了这两句诗而被斩首。大臣胡中藻写的诗中有“一把心肠论浊清”之句，乾隆帝看了竟说“加‘浊’字于国号‘清’之上，是何居心？ ”胡中藻被杀，友人也受到牵连。

——摘编自部编教材七年级下册

（1）材料一中皇权与相权之争结束于何时？列举这一时期为强化皇权采取的措施。（6 分）

（2）根据材料二，简述军机处的职能及其作用。（4 分）

（3）材料三反映了清朝统治者在思想上实行了怎样的举措？这一举措对思想和文化造成什么样的后果？（6 分）

（4）综上所述，概括明清时期加强君主专制中央集权表现出的特点。（2 分）

18.【答案与解析】

（1）明朝(2 分)措施：在地方，取消行中书省，设立“三司”；为监视官民，朱元璋设立锦衣卫，明成祖成立东厂，合称“厂卫特务机构”；实行八股取士等。（答出任意一点得 2 分，共 4 分）

（2）职能：跪受笔录，传达旨意。（2 分）

作用：强化君权；有利君主专制；便于皇帝独断朝政，使皇帝具有至高无上的权威，一切都要服从皇帝的意志，从而使君权进一步强化。（答出任意一点得 2 分）

（3）大兴“文字狱”(2 分）思想上，禁锢了人们的思想言论，严重阻碍了思想、学术的发展和进步；(2 分)文化上，对全国书籍进行全面检查，把认为是对统治不利的书籍列为禁书并收缴，许多珍贵的书籍被查禁和销毁。(2 分）

（4）政府机构的改革与思想控制的加强相结合。

评分说明：答出符合上述意思的一点得 2 分。

四、探究题（本题共 22 分）

19. 一个民族的文化，是民族赖以生存的支柱和灵魂。下面是张老师围绕“宋元——明清”时期的科技文化成就设计的自主学习任务单。请你完成相关学习任务。

任务一【识图学史——对比史事】（10 分）

（1）分别写出图一、图二作品的作者及该作品在中国文学史上的地位。（6 分）



图一

图二

（2）观察图三、图四，比较秦长城和明长城的相同和不同之处。（4 分）

图三

图四

任务二【材料研读——解释现象】（8 分）

材料一　17 世纪英国著名的哲学家培根在他的著作《新工具》中写道："举世皆知的印刷术、火药和磁石，人类的世界因为这三种发明而为之改观。首先在学术上，其次在战争中，最后是在航行方面，而因此又引出了不计其数的变化。由此，人类的文明也得到了极大的发展。"

（3）材料一中的作者对中国的三大发明进行了高度评价，分别简述这三大发明对世界文明的发展作出的重要贡献。（6 分）

材料二　宋应星在《天工开物》的序言中说："卷分前后，乃'贵五谷而贱金玉'之义。"

（4）材料二中的著作被誉为"中国 17 世纪的工艺百科全书"。作者在这部书中把谷物类放在前面，而把朱玉类置于最后，这说明了什么？（2 分）

任务三【漫画节日——陈述观点】（4 分）

伴随着中西文化交流的日益深入，我们今天不但过着传统节日，还流行过"洋节"。针对这种现象，有人大声疾呼，防止传统节日被"洋节"取代。

（5）请你写出两个宋代就有的中国传统节日以及你知道的两个"洋节"。谈谈你对中国传统节日以及中国人过"洋节"的看法。

19.【答案与解析】

（1）罗贯中（1 分）《三国演义》是我国章回体小说的开山之作，也是我国最为流行的长篇历史小说。（2 分）曹雪芹（1 分）地位：《红楼梦》的思想性强、艺术性高，在艺术上达到了极高的水平。（2 分）

（2）相同：都是古代军事防御工程；修建目的都是为了抵御北方游牧民族的侵扰；都长达万里；都是古代劳动人民智慧和创造力的结晶等。（答出符合题意的任意一点得 2 分）

不同：秦长城为了抵御匈奴的进攻；明长城为了防范蒙古骑兵（瓦剌和鞑靼）的侵扰。起止点不同：秦长城西起临洮，东到辽东；明长城东起辽东，西至嘉峪关；所用材质不同：秦长城夯土所筑，明长城主要是条石、青砖等。（答出符合题意的任意一点得 2 分）

（3）活字印刷术的出现，降低了制书成本，加快了图书的普及和文化的传播；（2 分）火药用于军事上，改变了作战方式，促使冷兵器向热兵器转变，加速了世界历史的发展进程；（2 分）指南针应用于航海，大大促进了世界远洋航海技术的发展，为郑和下西洋和世界地理大发现提供了条件。（2 分）

（4）说明他有着浓厚的重农思想；或中国古代重农抑商的价值观使然等。（2 分）

（5）传统节日：春节、元宵节、中秋节、端午节等。"洋节"：圣诞节、感恩节、母亲节、愚人节等。（分别答出符合题意的两个节日可得 2 分）

对传统节日的看法：一个国家的传统节日有着悠久的历史和丰富的文化内涵，对一个民族的发展有着重大的意义；充分发掘传统节日的文化内涵，大力弘扬以爱国主义为核心的民族文化精神，对于构建社会主义和谐社会具有十分重要的意义；我们应大力弘扬优秀的传统文化，增强对自己民族传统文化的自我保护意识等。对中国人过"洋节"的看法：要选择性地接受外来文化，取其精华，弃其糟粕；外来文化也有值得我们学习和借鉴之处等。

评分说明：观点正确，答出符合题意的任意一点得 2 分。