学校_____ 班级_____ 姓名_____ 测评编号_____
弥封线内不要答题

太原市2020年初中毕业班综合测试(二)

文 科 综 合

(考试时间：下午3：00——5：30)

道德与法治

注意事项：

1. 本试卷由历史和道德与法治两部分组成，满分150分，考试时间150分钟。其中道德与法治部分采用开卷考试，分第Ⅰ卷和第Ⅱ卷两部分，全卷共8页，满分75分，考试时间70分钟。
2. 答卷前，考生务必将自己的姓名、准考证号填写在本试卷相应的位置。
3. 答案全部在答题卡上完成，答在本试卷上无效。
4. 考试结束后，将本试卷和答题卡一并交回。

第Ⅰ卷 选择题(共36分)

一、选择题(在每小题的四个选项中，只有一项最符合题意。本大题有12小题，每小题3分，共36分)

1. 党的十九届四中全会通过了《中共中央关于坚持和完善中国特色社会主义制度 推进国家治理体系和治理能力现代化若干重大问题的决定》，以下与之相关的说法中正确的是
①中国特色社会主义制度是党和人民在长期实践探索中形成的科学制度体系
②我国国家治理一切工作和活动都依照中国特色社会主义制度展开
③我国国家治理体系和治理能力是中国特色社会主义制度及其执行能力的集中体现
④建设中国特色社会主义法治体系、建设社会主义法治国家是坚持和发展中国特色社会主义的内在要求，是中国特色社会主义制度的最大优势
⑤到中华人民共和国成立一百年时，全面实现国家治理体系和治理能力现代化，使中国特色社会主义制度更加巩固、优越性充分展现
A. ①②③⑤　　B. ②③④　　C. ①②④　　D. ①③④

2. 备受瞩目的第十三届全国人民代表大会第三次会议于2020年5月22日至28日召开。对于此次会议，下列说法不正确的是
A. 在大会开始时，全体与会人员向在抗击新冠肺炎疫情斗争中牺牲的烈士和逝世同胞默哀，表达了对逝去生命的尊重、对牺牲烈士的敬意和坚决夺取疫情防控阻击战胜利的决心
B. 李克强总理所作的政府工作报告中没有提出全年经济增速具体目标，主要因为全球疫情和经贸形势不确定性很大，我国发展面临一些难以预料的影响因素
C. 会议表决通过了《中华人民共和国民法典》，该法典意义重大，需要全体代表的2/3以上投赞成票才能通过
D.《全国人民代表大会关于建立健全香港特别行政区维护国家安全的法律制度和执行机制的决定》的通过，表明了我国维护国家安全、捍卫国家主权的坚定决心

one on one 1对1
咨询电话：0351-5609195

3. 下列认识正确的是
A. 聆听父母的教诲，主动帮助父母做家务，从不反对父母的意见
——生活中孝敬父母，就要对父母百依百顺
B. 参加学校组织的法治讲座，购买相关法律书籍学习，学法知法守法
——远离违法犯罪，防患于未然。因为犯罪就要蹲监狱
C. 主动参与学校诚信美德故事宣传，积极弘扬中华优秀传统美德
——诚信就是诚实守信，尤其是不能说谎，哪怕是善意的谎言
D. 回到农村老家，亲身体验村民议事会
——村民议事会是我国基层群众自治的一种形式

4. 对以下四幅图片的解读，正确的是

a　　b　　c　　d

①图片a体现了宪法规定的公民的基本义务，作为公民必须去做
②图片b中游客的行为既违背社会公德，也违反法律规定，具有社会危害性，承担了相应的刑事责任
③图片c中公司非法搜身的行为侵犯了当事人的人身自由
④图片d中的人物没有认识到，在我国，任何公民不能只享受权利而不履行义务
A. ①②　　B. ③④　　C. ①③　　D. ②④

5. 党的十九届四中全会丰富了我国社会主义初级阶段基本经济制度的内涵。同学们围绕这一制度进行了热烈的讨论，其中观点错误的是
①“公有制”和“按劳分配”的主体地位是由我国社会主义性质决定的
②多种所有制经济就是指非公有制经济，它和公有制经济一样，都是我国经济社会发展的重要基础
③国有经济+集体经济=公有制经济；个体经济+私营经济=非公有制经济
④在我国，存在多种分配方式。例如，让劳动、资本、土地、知识、技术、管理、数据等生产要素参与收入分配
⑤我国实行社会主义市场经济体制，这是2018年修宪时写入的。按劳分配为主体，多种分配方式并存的分配制度，是1999年写入宪法的
A. ③④⑤　　B. ①②　　C. ②③⑤　　D. ①④

one on one 1对1
咨询电话：0351-5609195

6. 对下列漫画反映的主题分类最恰当的是



①　　②　　③　　④

A. ①③ / ②④　　B. ③④ / ①②　　C. ①④ / ②③　　D. ①②③ / ④

7. 提升思维品质是道德与法治学科的重要任务之一。分析以下问题所运用的思维模式相同的是

①如何看待信息时代“人人都有麦克风，人人都是自媒体”？

②我国为什么要在未成年人保护法中增设“网络保护”的内容？

③请就政府发放电子消费券的做法谈谈你的看法。

④对我国青少年近视率持续攀升的现象，你怎么看？

A. ①③　　B. ②③　　C. ②④　　D. ③④

8. 博大精深的中华优秀传统文化中，古汉语内涵丰富、韵味悠长，会给人们带来诸多启迪。以下对古诗文的感悟中不恰当的是

A. “礼义廉耻，国之四维。四维不张，国乃灭亡”——法律和道德相辅相成，法治与德治相得益彰

B. “大鹏之动，非一羽之轻也；骐骥之速，非一足之力也”——实现中国梦必须凝聚中国力量

C. “国虽大，好战必亡”——我们要走和平发展道路

D. “万物并育而不相害，道并行而不相悖”——要尊重文明多样性，推动不同文明交流对话、和平共处、和谐共生

9. 以下重大事件与时间节点对应无误的一组是

①1921年，中国共产党诞生，中国人民从此站了起来

②1949年，新中国成立，社会主义制度建立，我国进入社会主义初级阶段

③1978年，党的十一届三中全会召开，开启了改革开放的历史征程

④2000年，完成从温饱到小康的历史性跨越，实现全面建成小康社会的阶段性目标

⑤2017年，党的十九大宣告中国特色社会主义进行新时代

⑥2020年，打赢脱贫攻坚战，基本实现社会主义现代化

A. ①②③　　B. ④⑤⑥　　C. ③⑤　　D. ①⑤⑥

one on one 1对1
咨询电话：0351-5609195

10. 下面是某班同学对国家机构的分析，其中正确的是

①镇人大主席团是国家在该镇的权力机关，乡镇也有“一府一委两院”，其中“一府”指乡镇人民政府，乡镇政府作为基层行政部门，接受县政府的领导。“一委”指乡镇监察委员会，“两院”指人民检察院和人民法院

②我国有专门的知识产权法院，它属于我国的审判机关

③国务院是我国最高行政机关，也是最高权力机关的执行机关，接受全国人大的领导和监督

④中华人民共和国中央军事委员会领导全国武装力量，实行主席负责制

A. ①②④　　B. ①③　　C. ②③④　　D. ②④

11. 老师组织同学们进行宪法知识竞赛，出了一些判断正误题，其中有误的是

A. 中国共产党作为执政党，必须以宪法为根本的活动准则。要做到党领导立法、保证执法、支持司法、带头守法

B. 我国宪法是公民权利的保障书，是治国安邦的总章程。宪法是其他法律的立法基础和立法依据，具有最高的法律效力。宪法的生命在于认同，宪法的权威在于实施

C. 宪法规定国家生活中最重要最根本的问题。我国宪法明确提出，国家的根本任务是，沿着中国特色社会主义道路，集中力量进行社会主义现代化建设。

D. 五四宪法是新中国第一部社会主义类型的宪法，现行宪法是新中国第四部宪法，是以五四宪法为基础制定的，先后进行过五次修改。

12. 以下图片体现中国担当的是

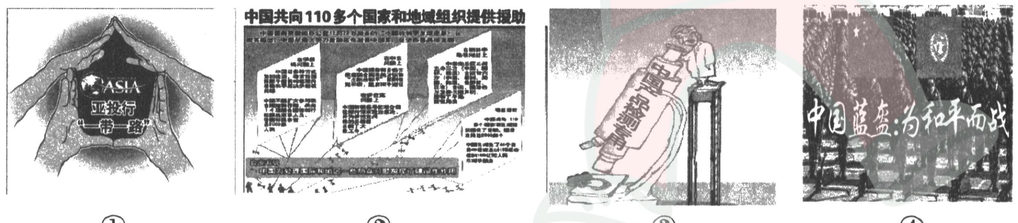

①　　②　　③　　④

A. ①③④　　B. ①②③　　C. ②③④　　D. ①②④

one on one 1对1
咨询电话：0351-5609195

弥封线内不要答题

弥封线内不要答题

第Ⅱ卷　非选择题(共39分)

二、简答题(本大题有4小题,共20分)

13.(1)基础知识填空(每空1分,共7分)

①得知妈妈总是向班主任老师询问自己在学校的表现,小桐很生气,觉得妈妈不相信自己。后来他想到,妈妈也是希望通过这种方式更多地了解自己,这也是对自己的关爱,就不再生气了,决定以后多和妈妈沟通交流。小桐这种调节情绪的方法是_____。

②_____是法律的最主要特征。法律_____的特征,体现了法律面前人人平等。

③我们在遇到法律问题时,可以通过_____等机构获得及时有效的法律帮助。受到非法侵害,可以寻求国家的_____。

④_____既是公民的基本权利,也是公民的基本义务。

⑤社会主义核心价值观对个人层面的要求是_____。

(2)小萌在学习《中华一家亲》的内容时,收集到了两张图片。(见下图)

图1



图2

①图1和图2分别是_____和_____的标志性景点。(填地名,2分)

②小萌认为我国在这两个地方实行相同的"自治"。你同意她的看法吗?说说你的观点。(2分)

14.　　**"两会"进行时**

以下是小新同学制作的一张知识卡片。

> 全国"两会"指的是中华人民共和国全国人民代表大会和中国共产党全国代表大会。全国人民代表大会是最高国家权力机关,代表全国人民统一行使国家权力,其代表由全体选民通过直接选举产生。全国人大享有最高立法权、决定权、荣典权和监督权。

(1)请你指出卡片内容中有误之处,并改正。(2分)

(2)小新在知识卡片中缺乏对全国"两会"的另外一个会议的介绍,请你补充。(2分)

one on one 1对1
咨询电话：0351-5609195

新东方 XDF.CN 中小学全科教育 咨询电话：0351-5609195

15."加强个人信息保护、对保护网络虚拟财产作出规定、细化网络侵权责任……"十三届全国人大三次会议通过的民法典全面回应新时代人民群众法治要求,充分反映人民意愿,聚焦经济社会热点难点问题,全面加强了对公民人身权、财产权、人格权的保护,形成更加规范有效的权利保护机制。

上述材料说明了什么?(2分)

16.　　**"敦煌女儿"樊锦诗**

1963年,樊锦诗从北京大学毕业后进入敦煌文物研究所工作。57年来,樊锦诗用爱和生命践行着守护敦煌的神圣誓言,她潜心石窟考古研究,完成了敦煌莫高窟北朝、隋、唐代前期和中期洞窟的分期断代;构建"数字敦煌",开创敦煌莫高窟开放管理新模式,有效地缓解文物保护与旅游开发的矛盾;在全国率先开展文物保护专项法规和保护规划建设,探索形成石窟科学保护的理论与方法,为世界文化遗产敦煌莫高窟文物和大遗址保护传承与利用做出突出贡献。"舍半生,给茫茫大漠。从未名湖到莫高窟,守住前辈的火,开辟明天的路。半个世纪的风沙,不是谁都经得起吹打。一腔爱,一洞画,一场文化苦旅,从青春到白发。心归处,是敦煌。"2019年度感动中国组委会给樊锦诗的颁奖词是对她一生努力的致敬。

樊锦诗为什么会获得感动中国年度人物?(3分)

三、分析说明题(本大题有1小题,共7分)

17.　　**官员直播带货引关注**

官员直播带货成为中国互联网上的一道新景观。据报道,2020年新冠肺炎疫情防控期间,多地涌现领导干部"直播带货",通过电商、媒体、短视频等平台与消费者云端对话,为当地特色产品代言。官员直播带货引起公众舆论的高度关注。

官员直播带货为什么会在互联网兴起?

one on one 1对1
咨询电话：0351-5609195

四、实践探究题(本大题有1小题,共12分)

18. **小农村　大天地**

某村南距省城太原23公里,北去忻州49公里,距高速入口及国道只有10分钟路程,交通十分便利。该村始建于春秋战国时期,其悠久的历史凝聚着2000余年的中国农耕文化。村子一度是民间贸易小集散地。

如此有魅力,某校道德与法治学科老师组织学生前往研学。

(1)研学前,老师希望大家做好准备工作。班委会拟定了一份研学方案,包括:活动目的、活动时间、活动地点、参加人员、交通工具、日程安排、组织机构、注意事项等。

请你将"活动目的"与"注意事项"补充完整。(2分)

活动目的:

注意事项:①

②

③

(2)同学们来到了某生态农业公司返乡开发乡村旅游、在该村创办的一个乡村庄园,走进这个乡村庄园,同学们被眼前一片美丽的薰衣草所吸引,纷纷拍照留念。

有同学认为,这个景观与历史悠久的古村落不和谐。假如你是导游,你会怎样回答这个问题呢?(2分)

(3)在村子里,同学们看到旅游区建筑物主要以窑洞、平房、四合院为主,据村民们介绍,后期他们还将继续修缮和恢复古窑洞遗迹。

你对窑洞这一独具特色的民居有哪些了解?请简单介绍一下。(2分)

one on one 1对1
咨询电话：0351-5609195

(4)在村里的宣传专栏里,同学们又见到了熟悉的2019年庆祝建国70周年活动中山西彩车的图片。

有些同学不是很熟悉其中一些元素的内涵,请你选择两个进行解读。(2分)



(5)听当地村民说,他们现在在村里旅游集团上班,其名下的土地以出租或流转的方式入股旅游公司。他们上班挣工资,年底分红,日子过得蒸蒸日上。

这得益于国家实行_____

_____

的基本经济制度。(2分)

(6)大家在思考该乡村旅游火爆的原因,你认为有哪些?(至少写出三个,2分)

one on one 1对1
咨询电话：0351-5609195

弥封线内不要答题