学校_____ 班级_____ 姓名_____ 测评编号_____
弥封线内不要答题

太原市2020年初中毕业班综合测试(二)

文 科 综 合

(考试时间：下午3：00——5：30)

历　史

注意事项：

1. 本试卷由历史和道德与法治两部分组成，满分150分，考试时间150分钟。其中历史部分分第Ⅰ卷和第Ⅱ卷两部分。全卷共8页，满分75分，考试时间70分钟。
2. 答卷前，考生务必将自己的姓名、准考证号填写在本试卷相应的位置。
3. 答案全部在答题卡上完成，答在本试卷上无效。
4. 考试结束后，将本试卷和答题卡一并交回。

第Ⅰ卷　选择题(共30分)

一、选择题(在每小题的四个选项中，只有一项最符合题意，请选出并在答题卡上将该选项涂黑。本大题15个小题，每小题2分，共30分)

1. 小史同学按时序性复习中国古代史，下面是他收集的一组图片资料。据此判断，他所复习的内容属于

干栏式建筑

甲骨文


司母戊鼎

诸子百家

A. 先秦时期　　B. 秦汉时期　　C. 魏晋南北朝时期　　D. 隋唐时期

2. 列表归纳是历史学习常用的方法之一。从下表信息中可以得出秦朝灭亡的原因有

秦朝全国人口	修建骊山陵和阿房宫	修筑长城	坑杀儒生	死刑	赋税
2000万人	70多万人	40万人	460多人	10多种	农民要上缴2/3收获物

①繁重的徭役　②沉重的赋税　③残酷的刑罚　④频繁的农民起义

A. ①②③　　B. ②③④　　C. ①③④　　D. ①②④

one on one 1对1
咨询电话：0351-5609195

新东方 XDF.CN 中小学全科教育 咨询电话：0351-5609195

3. 我国历史悠久，疆域辽阔，历代王朝都为强化集权统治，巩固统一多民族国家采取了不同的措施。下列统治者与其加强统治的措施相符的是

A. 汉高祖——罢黜百家，独尊儒术　　B. 隋炀帝——创立科举，开通运河
C. 宋太祖——创立行省，设锦衣卫　　D. 明太祖——分化事权，重文轻武

4. 古人常以诗词寄情寓志。下面两首诗歌的内容，反映出两位历史人物共同的思想情怀是

《韬钤深处》	《复台》
作者　戚继光	作者　郑成功
小筑暂高枕，忧时旧有盟。	开辟荆榛逐荷夷，
呼樽来揖客，挥麈坐谈兵。	十年始克复先基。
云护牙签满，星含宝剑横。	田横尚有三千士，
封侯非我意，但愿海波平。	茹苦间关不忍离。

A. 强化君主集权的忠心　　B. 维护平等团结的民族关系
C. 巩固封建统治的决心　　D. 捍卫国家领土主权的尊严

5. 宋高宗说："广南市舶，利润甚厚，提举官宜得人而久任，庶蕃商肯来，动得几十万缗，皆宽民力也。"这段话主要突出宋朝政府

A. 重视海外贸易　　B. 重视官吏选拔
C. 减轻人民负担　　D. 改变抑商政策

6. 干支纪年法是先贤智慧的结晶，此纪年法六十年一轮回。今年(2020年)是庚子年，由此上溯两个轮回的那个庚子年发生的历史事件是

A. 1840年鸦片战争爆发　　B. 1900年八国联军侵华
C. 1940年百团大战　　D. 1950年抗美援朝战争

7. 运用历史地图是学习历史的基本技能之一。从下面两幅地图反映的历史信息中，可提取到中国革命的特点是

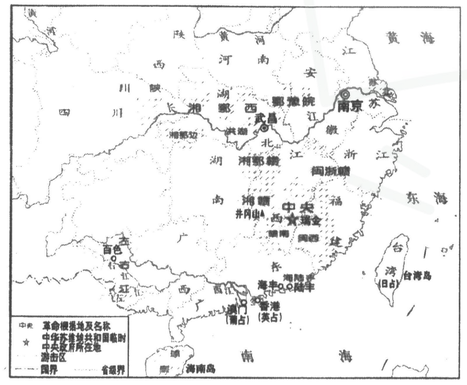
图一　1929-1932年农村革命根据地形势图

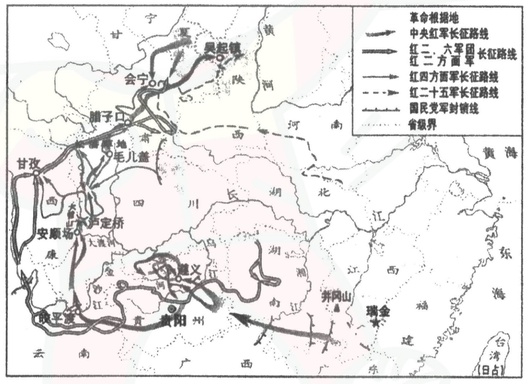
图二　中国工农红军长征路线示意图

A. 开展武装斗争反抗国民党的反动统治
B. 红军长征掀起了抗日救亡运动新高潮
C. 中国革命的重心从长江流域转移到黄河流域
D. 从效仿苏俄中心城市暴动到探索走自己的路

one on one 1对1
咨询电话：0351-5609195

8. 美国记者埃德加·斯诺所著的《红星照耀中国》中有这样的描述："在兵变那天，东北军和西北军的师以上将领联名通电中央政府，各省首脑，全国人民。这封简短的电报说明'为了要促使他觉悟'，已要求总司令暂留西安府，同时保证他个人安全。"材料所述的历史事件是

A. 九一八事变　　B. 西安事变

C. 卢沟桥事变　　D. 重庆谈判

9. 20世纪六七十年代，原广东旧县宝安县（为深圳市的前身），一个农民劳动一天的收入平均是0.7元，而香港则有70元港币左右。一边早就用上了电视、冰箱，另一边只能吃红薯、咸鱼……悬殊的差距，引起了群众大规模的逃港。面对这种现象，中共中央采取的举措是

A. 进行国企改革，建立市场经济　　B. 推行和平统一，一国两制方针

C. 实行对外开放，设立经济特区　　D. 制定福利制度，保障人民生活

10. 古希腊有这样一位伟大的人物：他博学多才，被称为"百科全书式的学者"，他还创立了逻辑学这门新的学科。他也是一个优秀的老师，他培养的学生曾经建立了一个地跨欧、亚、非三大洲的庞大帝国，帝国的疆域西起希腊，东到印度河流域。据此叙述推断文中的"他"和"他的学生"分别是

A. 德谟克利特、凯撒　　B. 亚里士多德、亚历山大

C. 苏格拉底、屋大维　　D. 亚里士多德、伯里支利

11. 请根据右边的目录为本单元选择一个恰当的单元标题

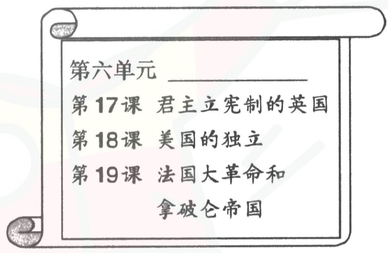

A. 欧美国家步入近代

B. 西欧经济和社会发展

C. 资本主义制度的加强

D. 资本主义制度的初步确立

12. 邓小平说："社会主义究竟是什么样子，苏联搞了很多年，也没有完全搞清楚。可能列宁的思路比较好。"材料中的"列宁的思路"是指

A. 实行战时共产主义政策

B. 建立高度集中的政治经济体制

C. 实施新经济政策

D. 退出第二次世界大战

one on one 1对1
咨询电话：0351-5609195

13. 二战后，西方资本主义国家在发展中出现了新变化，下面符合其"新变化"的表现是

A. 美国成为战后整个世界霸主　　B. 由欧共体到欧盟，加速了欧洲一体化进程

C. 日本战后发展成为政治大国　　D. 社会保障制度解决了资本主义的基本矛盾

太原市某中学历史社团的同学们开展了"爱我家乡"系列社会实践调查活动，请你参与并完成第14～15题。

14. 2020年5月11-12日习近平总书记在山西考察调研时，就山西文化旅游事业的发展做出了重要指示："要充分挖掘和利用丰富多彩的历史文化、红色文化资源加强文化建设"。下面是张丽同学搜集的相关旅游文化资源的图片，其中符合"红色文化"资源研究主题的是

A. 临汾尧庙



B. 太原晋祠



C. 大同云冈石窟

D. 八路军太行纪念馆

15. 2010年山西被批复设立国家资源型经济转型综合配套改革试验区，是我国设立的第9个"国家级综合配套改革试验区"，也是我国第一个"全省域、全方位、系统性"的国家级综合配套改革试验区。李明同学为此寻找符合"创新、协调、绿色、开放、共享"发展新理念的事例，请你为他做出正确选择

①挖掘文化资源，发展旅游产业 ②立足煤炭优势，实施能源转型 ③限制白酒入晋，保护汾酒销售④太钢科技创新，研发"笔尖钢"

A. ①②③　　B. ②③④　　C. ①②④　　D. ①③④

one on one 1对1
咨询电话：0351-5609195

弥封线内不要答题

不要答题
内线封弥

第Ⅱ卷　非选择题(共45分)

二、简答题(本大题共10分)

16. 传承优秀文化，发扬民族精神，彰显大国风范，坚定文化自信。根据要求，完成下面相关问题。

(1)【传承文化】中医药是中国传统文化的瑰宝。根据所学知识将空缺部分补充完整，并简述你对我国中医药学发展的看法。(4分)

古　代	现　代
春秋战国：扁鹊用"望闻问切"四诊法诊断病情	1955年，我国中医研究院成立
东汉时期：张仲景的__《①》__奠定中医临床学基础，提出"治未病"理论。华佗发明"麻沸散"，创造"五禽戏	1956年，苏联派专家来华学习针灸
唐朝时期：__②__东渡日本传播中国的医药学	2015年，屠呦呦提取__③__获得诺贝尔生理学或医学奖
明朝时期：李时珍的《本草纲目》是一部药物学巨著，17世纪初传播开来	2018年，世界卫生组织首次将中医纳入具有全球影响力的医学纲要
	2020年，中医药在新冠疫情防控中发挥作用，中国及时同世卫组织共享了这一独特经验，为全球战疫贡献了中国智慧

(2)【民族精神】钟南山说："历史上的武汉是一座英雄的城市"。根据下面图片反映的史实，说明这一结论。(4分)



图一 人民英雄纪念碑浮雕——武昌起义

图二 武汉抗战纪念园

(3)【共克时艰】下图反映了当今世界面临的挑战有哪些？面对这些挑战，人类社会应如何积极应对？(2分)

图三 澳大利亚的森林大火

图四 亚非蝗灾

图五 新冠肺炎疫情

one on one 1对1
咨询电话：0351-5609195

三、材料解析题(本大题含2个小题，每小题10分，共20分)

17. 伴随着人类由分散走向整体，交往与冲突并行。阅读下列材料，结合所学知识，回答问题。

材料一　1500年以前，人类基本上生活在彼此隔绝的地区中。……直到1500年前后，各种族集团之间才第一次有了直接的交往…… 因此，1500年是人类历史上的一个重要转折点。

——斯塔夫里阿诺斯《全球通史》

(1)材料一中，为什么说"1500年是人类历史上的一个重要转折点"？这一转折点事件发生的根源是什么？(2分)

材料二　17、18世纪，欧洲奴隶贩子把枪支、铁器等商品运到非洲换取黑奴，再把黑奴运往美洲卖掉，又将美洲生产的原棉、烟草等商品运抵欧洲。英国是大西洋贸易的主角，巨额的财富和海外市场刺激了英国制造业的迅速发展。

——岳麓版高中教材《经济成长历程》

(2)根据材料二描述的现象，画出这一贸易路线的简单示意图，并简述其对美洲和非洲产生的影响。(4分)

材料三　整体世界形成后，少数大国的殖民地和经济利益遍布世界各地，成为拥有全球性利益的大国，这是以前所没有的现象。由于世界经济的相互联系，局部地区的利益会牵涉到全球性利益，因此，少数大国的争夺具有了全球性，局部地区的冲突容易转化为全面对抗，使得战争具备了转变为世界大战的可能。

——《历史学习精要》

(3)根据材料三，结合两次世界大战的具体史实，说明"少数大国的争夺具有了全球性，局部地区的冲突容易转化为全面对抗"。(4分)

one on one 1对1
咨询电话：0351-5609195

18. 在历史发展的进程中，许多杰出历史人物都为人类社会的进步与发展做出贡献。阅读下列材料，结合所学知识，回答问题。

材料一 拿破仑说过："我真正的光荣并非打了四十次胜仗；滑铁卢之战抹去了关于这一切的记忆。但是有一样东西是不会被人忘却的——那就是我的民法典。"

材料二 1999年9月英国广播公司(BBC)评选"千年第一思想家"在全球互联网公开征询投票一个月，汇集全球投票的结果，马克思位居第一，爱因斯坦第二。

2005年7月，英国广播公司以古今"最伟大的哲学家为题"调查了3万名听众，结果是马克思得票率第一。

材料三

"中国革命已经十三年，现在得到的结果只有民国之年号，没有民国之事实……所以革命事业，就是救国救民，我一生革命，便是担负这种责任。"

——1924年孙中山在黄埔军校的演讲

人类的公正不是建立在暴力的基础上，真正的公正是建立在自我牺牲、道义无私奉献的基础上的。我相信非暴力这种武器属于最强者。我相信，一个坚强的战士才敢于手无寸铁，赤裸着胸膛面对敌人而死。……

——甘地《论不合作》(1919年11月)

(1)如何理解材料一中拿破仑所说的这段话？(2分)

(2)根据材料二，从理论和实践两个方面，说明马克思两次得票率位居第一的理由。(4分)

(3)根据材料三，对比孙中山和甘地思想的异同点。(2分)

(4)综上所述，概括上述人物在哪些方面推动了世界近代历史发展的进程。(2分)

one on one 1对1
咨询电话：0351-5609195

四、探究题(本大题共15分)

19. 文明兴衰更替留下了各具特色的发展道路和经验教训，启迪着今天，也影响着未来。请完成下面有关"发展之路"为主题的探究学习任务。

任务一【交流之路——绵延千年的中外交往】(3分)

(1)分别列举图一、图二路线上，为中外交流做出贡献的典型事例，并归纳古代对外交往活跃的共同原因。

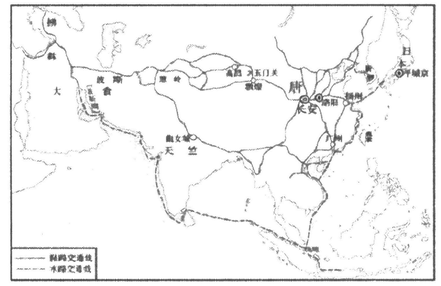

图一 唐代对外交通图

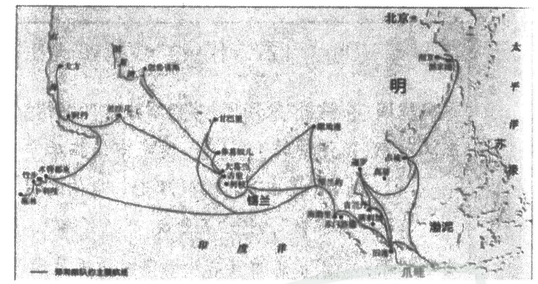

图二 明朝时期的航海路线图

任务二【转型之路——殊途同归的现代化历程】(4分)

(2)以近代的英国和中国发展为例，论述下面材料中关于现代化的"两种途径"。

现代化主要有两种途径：一种是原发型，指的是西欧和北美(德国例外)，主要是内部因素，积累，自发转变；一种是传导型，大多数国家都是，主要不是内部因素，是外部刺激，是回应和学习。

——杨宁一《现代化理论》

任务三【坎坷之路——地位变迁的国际会议】(2分)

(3)分析下面两次华盛顿会议上中国国际地位大相径庭的原因。

在国内反帝爱国运动的压力下，1921年的华盛顿会议上，中国代表据理力争，达成山东问题之解决。随后，会议通过的《九国公约》又规定："施用各种之权势，以期切实设立并维持各国在中国全境之商务实业机会均等之原则。

——齐世荣《世界史：现代史编》

1942年1月1日，由中英美苏四国领衔的26个反法西斯国家，签署了对德意日共同采取行动的《联合国家宣言》…世界反法西斯统一战线正式形成。同月，中国战区统帅部成立，中国以多年独立抗日所显示的伟大力量，赢得了世界大国的地位。

——张海鹏《中国近代通史》

任务四【智慧之路——积极务实的中国方案】(6分)

(4)根据下面文字信息，结合相关史实，以"中国智慧引领时代发展"为题写一篇150字左右的小短文。

在经济方面，中国特色社会主义为发展中国家经济社会发展探索出一种具有高度可行性的方案；在政治方面，中国特色社会主义为人类对更好政治制度的探索提供了中国经验；在外交方面，中国特色社会主义为当代国际关系开辟出一条合作共赢、共建共享的文明发展新路。

one on one 1对1
咨询电话：0351-5609195

弥封线内不要答题